期中素质测评试卷

（总分:100 分　时间:90 分钟）

题　号	一	二	三	四	五	六	七	八	附加题	总　分
得　分										

一、填一填。(10 分)

1. 250×80 的积的末尾共有(**4**)个 0。

2. ON 键是(**开机**)键。

3. (**0**)乘任何数都得 0。

4. 32500001 读作(**三千二百五十万零一**)。

5. 计算 125×30 时,先算 125×3,得(**375**),再在积的末尾添上(**1**)个 0,得(**3750**)。

6. 在五十万后面添上(**3**)个“0”,结果是五亿,五亿写作(**500000000**)。

7. 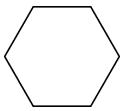 左图共有(**6**)条对称轴。

二、选择。(将正确答案的序号填在括号里)(8 分)

1. 345×24 的积是(**B**)位数。

A. 三　　B. 四　　C. 五

2. 6840201≈(**B**)万。

A. 685　　B. 684　　C. 68

3. 3842567 中的“5”表示(**A**)。

A. 5 个百　　B. 5 个千　　C. 5 个万

4. 下面图形中,(**C**)是轴对称图形。

A.  　　B. 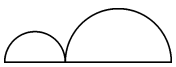 　　C. 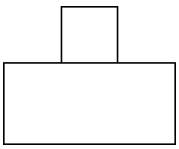

三、判断下面的图形是不是轴对称图形，是轴对称图形的在对应的(　　)里画“√”。

（8 分）

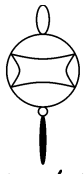

（ √ ）

（ √ ）

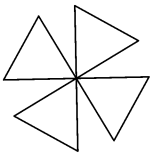

（ √ ）

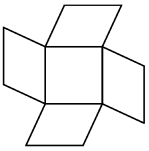

（　　）



（ √ ）

（　　）

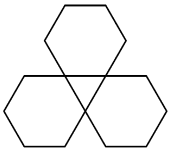

（ √ ）

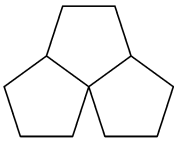

（ √ ）

四、读一读，写一写。（8 分）

1. 读出下列各数。

5280000　　读作：(**五百二十八万**)

3524685000　　读作：(**三十五亿二千四百六十八万五千**)

18325000000　　读作：(**一百八十三亿二千五百万**)

35248　　读作：(**三万五千二百四十八**)

2. 写出下列各数。

四万三千零八　　写作：(**43008**)

六亿零三十万五千　　写作：(**600305000**)

三百八十六万　　写作：(**3860000**)

三十五亿六千万零九　写作：(**3560000009**)

五、用“四舍五入”法求近似数。（4 分）

6832051≈(**683**)万　　4675000≈(**468**)万

78642650000≈(**786**)亿　　3852647500≈(**39**)亿

六、计算乐园。（16 分）

1. 用计算器计算。（4 分）

368520+248638=**617158**　　385026÷2−13250=**179263**

68284÷4−360+250=**16961**　　357×264−1240=**93008**

2. 列竖式计算。(12 分)

286×31 = **8866**

```
   2 8 6
×    3 1
---------
   2 8 6
 8 5 8
---------
 8 8 6 6
```

311×28 = **8708**

```
   3 1 1
×    2 8
---------
 2 4 8 8
 6 2 2
---------
 8 7 0 8
```

408×76 = **31008**

```
       4 0 8
×        7 6
-----------
     2 4 4 8
 2 8 5 6
-----------
 3 1 0 0 8
```

350×28 = **9800**

```
   3 5 0
×  2 8
---------
 2 8 0
 7 0
---------
 9 8 0 0
```

450×30 = **13500**

```
   4 5 0
×    3 0
-----------
 1 3 5 0 0
```

241×37 = **8917**

```
   2 4 1
×    3 7
---------
 1 6 8 7
 7 2 3
---------
 8 9 1 7
```

七、画一画。(16 分)

1. 画出下面各图形的另一半,使它们成为轴对称图形。

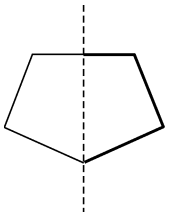

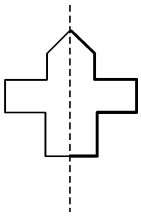

2. 将方格纸中的图形先向左平移 5 格,再向下平移 3 格,画出平移后的图形。

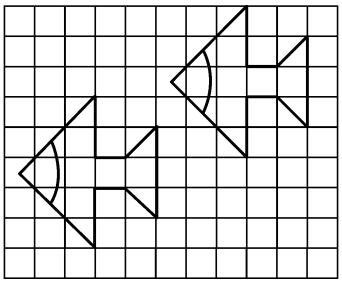

八、解决问题。(30 分)

1. 向阳村今年收小麦和玉米共 46 吨,其中小麦比玉米少 6 吨。今年收小麦和玉米各多少吨?(先画线段图整理,再解答)

【答案】

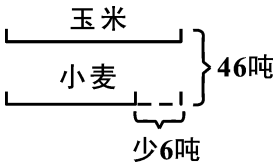

(46−6)÷2=20(吨)　20+6=26(吨)

答:今年收小麦 20 吨,收玉米 26 吨。

2. 小强和小明两家相距 2400 米，两人同时从家中出发，相向而行，小强每分钟走 50 米，小明每分钟走 70 米。他们经过多长时间可以相遇？（先画出线段图，再解答）

【答案】

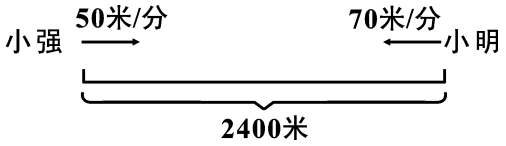

2400÷(50+70)=20(分)

答：他们经过 20 分钟可以相遇。

3. 一个八位数，已知各个数位上的数字之和是 10，且千万位和百位上的数字都是 3，万位和十位上的数字都是 2，求这个八位数是多少。

【答案】30020320。

附加题。（10 分）

400÷25=(400×5)÷(25×5)=2000÷125=(400×100)÷(25×100)，这组算式对吗？请你用这种方法写出几组商是 8 的除法算式。

【答案】对，自己完成。